Diagrammes circulaires

Lis le graphique et entoure la bonne réponse.

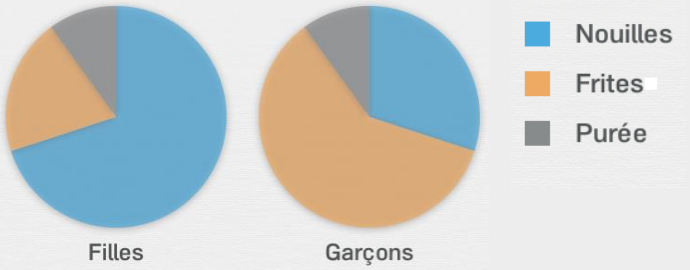

Quel est le plat préféré des garçons ?

Nouilles | Frites | Purée

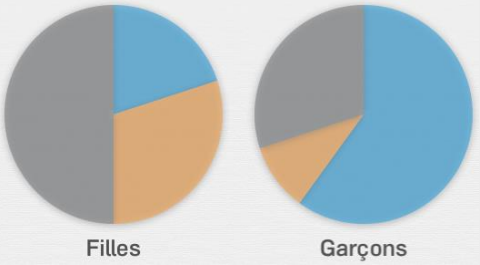

Quel est l'animal préféré des filles ?

Chien | Chat | Lapin

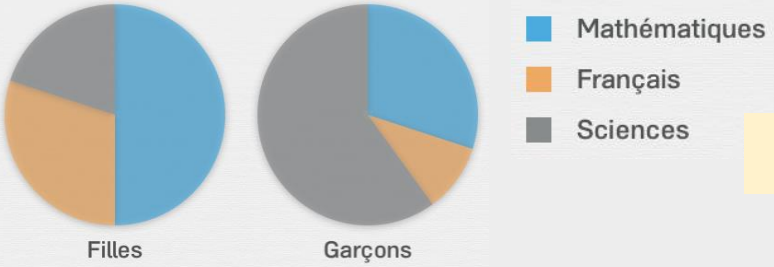

Quelle est la matière préférée des garçons ?

Maths | Français | Sciences

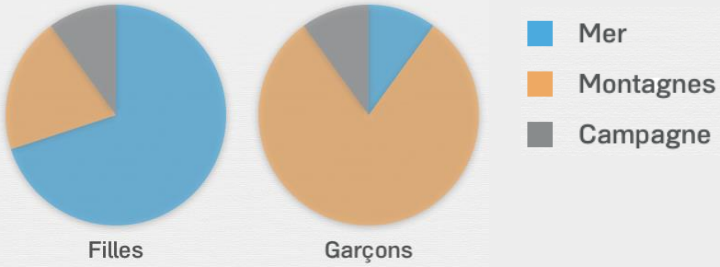

Quelle est la destination préférée des garçons ?

Mer | Montagne | Campagne

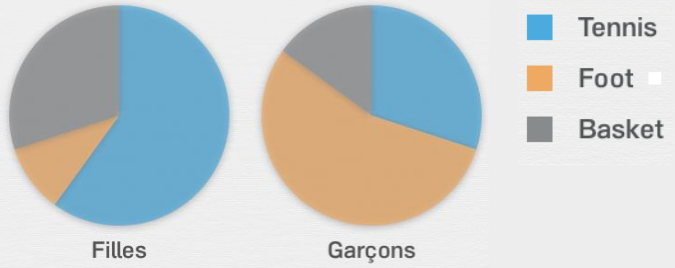

Quel est le sport préféré des filles ?

Tennis | Foot | Basket